ثانوية أفورار الإعدادية ذ.المصطفى ترشيش	تقويم يشخيصي لمادة الرياضيات	مستوى الأولى ثانوي إعدادي	الرياضيات المدة الزمنية: ساعة

الإسم :.....النسب:.....القسم:.....الرقم:.....

تمرين 1

أحسب ما يلي :

6,5+12,604 = ……

76,32-19,301 =…….

2,07×34,5 =…….

8750÷4,375 =…….

تمرين 2

رتب تزايديا الأعداد العشرية التالية:

15,909 و 105,2 و 18,99 و 105,4 و 18,6

……<….....<…..…...<……..<…..….

تمرين 3

أنجز القسمة الأوقليدية التالية :

431 | 7

431 =7×….. + ….

تمرين 4

اشترت فاطمة 5 لترات من الزيت 10 كيلوغرامات من الدقيق الممتاز ودفعت 157,75 درهما.

ما هو ثمن اللترالواحد من الزيت علما أن ثمن الكيلوغرام واحد من الدقيق هو 9 دراهم ؟

.....

.....

.....

تمرين 5

اختزل نتائج الكسور التالية: $\frac{27}{9}\times\frac{6}{2}$ و $\frac{1}{5}+\frac{11}{5}$

$$\frac{1}{5}+\frac{11}{5}=\cdots\ldots=\cdots\ldots.$$

$$\frac{27}{9}\times\frac{6}{2}=\cdots\ldots=\cdots\ldots.$$

تمرين 6

إملء الفراغ بما يناسب :

الشكل الهندسي		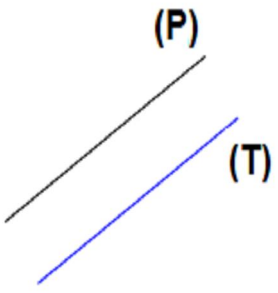	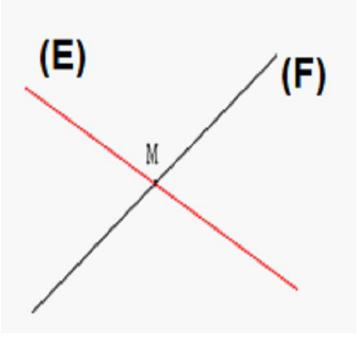	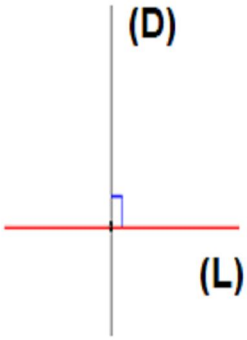
التسمية مع	……	……	……	……

تمرين 7

أنشئ المثلث ABC بحيث: AB= 3cm و AC=4cm و $\widehat{BAC}$ =90° و O منتصف الضلع [BC]مع وضع الرموز المناسبة.

تمرين 8

لنعتبر الشكل الهندسي التالي:

الدائرة الصغيرة شعاعها 2cm

الدائرة الكبيرة شعاعها 3cm

محيط الهلال الملون هو .....

مساحة الهلال الملون هي .....